صنعت مد داره نگران‌کننده میشه... یاد بچگیم افتادم که برامون ۶سایز بزرگ‌تر لباس می‌خریدن. ما ناراحت می‌شدیم، نگو رو مد بودیم!

تا بخند

ترسناک‌ترین دوران زندگیم، زمان نامزدیم بود. پشت تلفن با هم حرف می‌زدیم، خانمم می‌گفت گرممه، منم صدای کولر در می‌آوردم. حالا من به کنار، اون می‌گفت بسه بسه یخ زدم!

رفتم دکتر برای سرماخوردگیم. گفت می‌تونی آب‌نمک بریزی تو بینیت، از دهنت در بیاری؟ گفتم نه، ولی می‌تونم استامینوفن بذارم تو گوشم، از چشمم در بیارم! نمی‌دونم چرا با گوشی دکتریش افتاد به جونم؟!

خوش به حالتون کادو می‌گیرید و براتون خاطره‌انگیز می‌شه. من روز تولدم از خواب دیرتر پاشدم، دیدم دارن کیک رو می‌خورن!

سیم جین

علیرضا کاردار
طنزپرداز

جای خالی سخنان عضو کمیسیون صنایع و معادن مجلس را پر کنید. (راهنمایی: گزینه جیم)

۱-... برنده اصلی ممنوعیت واردات لوازم خانگی هستند.

الف-بعضی دوستان ب-مردم
ج-قاچاقچیان

۲-... بیشتر از این گونه قوانین آسیب می‌بینند.

الف-بعضی دوستان ب-تولیدکنندگان
ج-مصرف کنندگان

۳-این ... هستند که تاوان انحصار در بازار خودرو را با ... خود می‌پردازند.

الف-خودروسازها / جیب
ب-بعضی دوستان / جان و دل ج-مردم / جان

حکایت

برای کودکان

میهمان نادان و بیمار بدبخت!

مردی به عیادت بیماری رفت و در کنار بستر او به مدت طولانی نشست. بیمار که حال و روز خوبی نداشت نمی‌خواست مستقیم به میهمان حرفی بزند، برای همین گفت: «از بس که به عیادت من آمدند، نتوانستم استراحت کنم». میهمان که متوجه منظور او نشده بود گفت: «می‌خواهی در را ببندم؟» بیمار که دید میهمانش با کنایه متوجه ماجرا نمی‌شود گفت: «بله، اما از بیرون!»

سه نقطه

امروز داییم دریچه جدیدی رو به هوش مصنوعی باز کرد. عکس ته فنجون قهوه‌اش رو فرستاد برای ChatGPT تا براش فال بگیره!

نقطه بازی

سخت

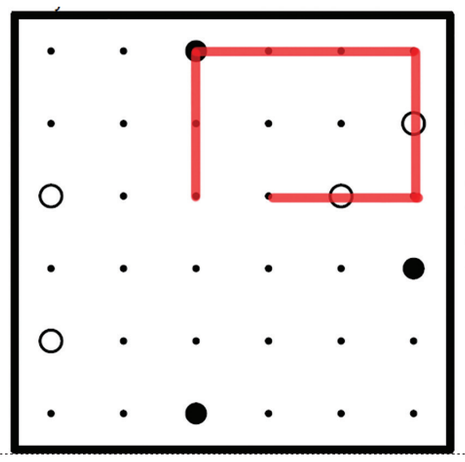

نقطه‌های کوچک را طوری به هم وصل کنید که در انتها، ۲ سر خط به هم برسد. با رعایت این قانون: خط باید در نقطه‌های سیاه بزرگ بشکند و از روی نقطه‌های سفید صاف عبور کند. مانند خط نمونه قرمز.

عددیاب

متوسط

عددهای زیر در این جدول به صورت افقی، عمودی و مورب آورده شده‌اند. آن‌ها را بیابید.

4	9	7	5	2	3	4	8	2	9	4	4	1
9	0	5	7	0	2	9	8	6	6	0	1	9
2	4	2	7	1	5	3	8	6	9	9	3	3
3	1	6	6	8	1	7	1	4	4	0	2	4
3	0	0	6	8	6	6	0	4	9	8	1	9
3	2	6	8	3	0	0	1	2	4	0	3	3
5	3	0	5	7	0	7	1	1	4	3	1	0
5	3	3	7	0	7	3	8	7	3	8	7	8
8	5	0	6	9	8	0	5	2	7	6	4	3
1	0	8	3	6	2	9	7	4	8	9	7	1
6	7	4	6	5	1	0	8	7	1	3	0	8
9	6	7	9	6	7	5	1	2	9	9	3	2
7	4	0	2	3	2	3	3	2	8	9	9	9

-۳۹۴۳۹۱-۱۳۱۲۳۱
-۱۴۴۹۱۱-۷۰۶۱۶۶
-۷۴۶۵۱۰-۴۸۲۹۴۴
-۴۹۷۵۲۳-۱۴۸۴۲۰
-۲۰۱۴۰۹-۷۹۶۱۸۵
-۸۲۳۳۲۳-۵۰۶۹۸۰
-۵۱۶۰۰۷-۲۰۸۱۴۸
-۲۳۳۳۵۵-۸۳۱۸۸۰
-۸۹۲۰۷۵-۵۷۶۹۷۶
-۶۰۱۷۷۹-۲۳۹۹۲۱
-۲۶۰۶۰۳-۹۲۶۳۸۰
-۹۶۸۷۶۳-۶۸۳۰۸۰
۳۵۴۱۹۹

معمای تصویری

متوسط



بگرد و پیدا کن

یکی از این میمون‌ها با بقیه تفاوت دارد. آن را در کمتر از ۵ ثانیه بیابید.

اختلاف تصاویر

متوسط

این ۲ تصویر ۵ اختلاف با یکدیگر دارند. سعی کنید آن‌ها را به تنهایی یا با کمک اطرافیان پیدا کنید. با این کار ضمن سرگرم شدن، آلزایمر را هم از خود دور خواهید کرد.

معمای شطرنج

آسان

نوبت حرکت مهره سیاه است، با یک حرکت سفید را مات کنید.

خط بازی

متوسط

برای کودکان

بچه‌های باهوش، عددهای یکسان را به هم وصل کنید طوری که خط‌ها همدیگر را قطع نکنند و خانه بدون خط باقی نماند.

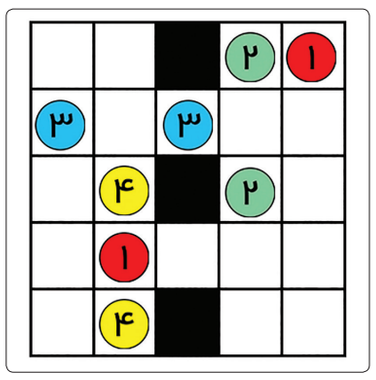

ضرب المچل

متوسط

تصویر زیر چه ضرب‌المثلی را به ذهن شما می‌رساند؟



سودوکو ها

قانون: ارقام ۱ تا ۹ را در خانه‌های خالی بنویسید طوری که در هر سطر، در هر ستون و در هر مربع ۳ در ۳ هیچ رقمی تکراری نباشد.

متوسط

۵	۹			۱		۷		۶
		۷	۸	۴			۵	
۶					۵	۳		۸
		۵	۱				۸	
۴	۸				۷			۳
		۹	۴		۲	۶	۷	
		۳		۹		۴		۲
۹	۴		۳		۸		۱	
	۷			۶		۸	۳	

سخت

		۸	۷			۲		۶
۶					۸	۷		
	۵			۹			۳	
		۹			۵	۶		
۴			۸					۱
	۲			۶			۴	
		۴	۱					۵
۱					۶	۳		
	۸			۴			۶	۲

حل جدول ها و سرگرمی ها



معمای تصویری:

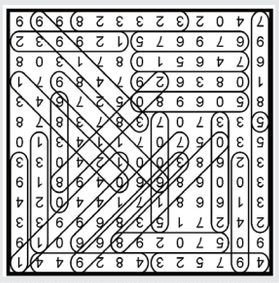

عددیاب:

اختلاف تصاویر:

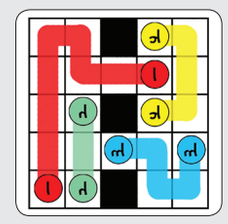

خط بازی:

معمای شطرنج:

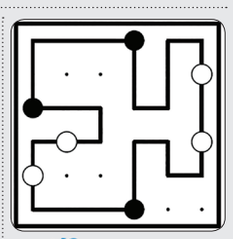

نقطه بازی:

جدول سخت | ۱۶۹۲

افقی: ۱-آخرین فرمانروای زندیه ۲-پسوند شباهت-عادت-رطب ۳-لامپ الکترونیکی سه‌قطبی-طلبعه اعداد-عمیق ۴-شهر فراری-گدا-شکننده ۵-از حروف الفبای فارسی-زهتاب-آسیب ۶-از برونته‌ها-ارجمند ۷-از صنایع ادبی-تلخ عرب ۸-یک عامیانه-پسر زال-حشره موذی ۹-برج حمل-ظل-از خدایان باستان ۱۰-عقیده انتخاباتی-اندرون دهان-پیک ۱۱-همدم-پایتخت ایتالیا-ام الخبائث ۱۲-کتابی از تورج زاهدی

عمودی: ۱-باشگاه فوتبال انگلیسی-مطیع ۲-فوتبالیست تیم ملی-ملکه ۳-خالص-بالادست ۴-ترش‌رو-میله رزمی-از نت‌های موسیقی ۵-درخت اعدام-ضمیر عربی ۶-گل منجمد-ذره باردار-افشانه ۷-پدر حضرت خدیجه(س)-زنگ بزرگ-حرف همراهی عرب ۸-مفقود-فیلمی از کاهانی ۹-واحد شمارش سیگار-دلسوزی-حاشیه ۱۰-طلاساز-واحد درسی ۱۱-منحنی گرافیکی-دستورزبان ۱۲-عدل-کلانتری



حل جدول شماره ۱۶۹۱

جدول متوسط | ۱۶۹۲

افقی: ۱-از غذاهای ایرانی-بیابان ۲-اشاره به نزدیک-قمر مشتری-اعتبار ۳-روزی دهنده-بیرق-ساز شاکی ۴-شجاع-برانگیختن ۵-کلید موسیقی-سرنخ معدن ۶-کرایه ۷-تکنیکی در نقاشی ۸-یاقوت سرخ-مرطوب ۹-لباس زمستانی-لغت نامه فرانسوی ۱۰-علامت جمع-پناه-فدراسیون جهانی فوتبال ۱۱-واحد پول امارات-آغوز-صدای زنبور ۱۲-رخسار-بازیگر فیلم زاپاس

عمودی: ۱-دوره تحصیلات چهارساله دانشگاهی-بی‌ثمر ۲-دیدار-برف‌روب ۳-چراغ بادی-آشکار ۴-شب نزول قرآن-شتر بی کوهان ۵-بخار دهان-اصطلاحی در ریاضی ۶-زدنی ماشین خراب-نکوهش-بدهکار ۷-اتاق آذری-پایه کارمندی-آتش دوزخ ۸-تاخت سریع اسب-منحرف ۹-سرگشته-خودستایی به دروغ ۱۰-اسب بارکش-مهربان ۱۱-محصول شمال-تفاوت ۱۲-فلز چهره-فرمالیته